Nombre _____ Grupo _____ Fecha _____

3 Practico (8 ejercicios)



Antes de contestar: ¿Qué datos tengo? ¿Qué me piden? Muestra tus cálculos en el espacio.

1 En la caminata, ¿cuántos kilómetros recorrió entre la hora 2 y la 3?

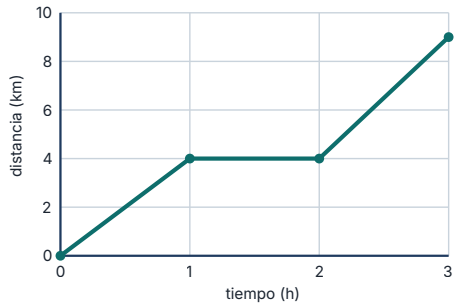

(A) 5

(C) 4

(B) 9

(D) 0

Mis cálculos

2 En la caminata, ¿qué pasó entre la hora 1 y la 2?

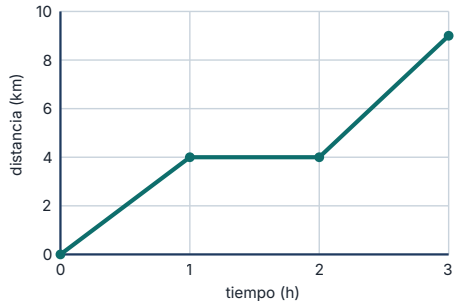

(A) Caminó 4 km

(C) Se detuvo: la distancia no cambió

(B) Regresó al punto de partida

(D) Caminó más rápido

Mis cálculos

3 En la caminata, ¿en qué tramo caminó más rápido?

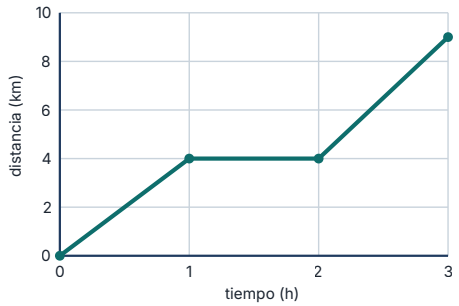

(A) de la hora 0 a la 1: 4 km en 1 hora

(B) de la hora 1 a la 2

(C) fue igual en todos los tramos

(D) de la hora 2 a la 3: 5 km en 1 hora

Mis cálculos

4 La gráfica muestra el agua de un tanque. ¿Qué ocurre entre el minuto 4 y el 6?

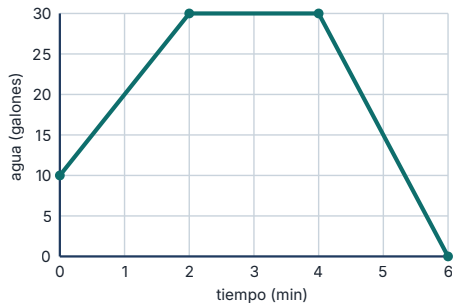

(A) El tanque se llena

(B) El tanque se vacía: pasa de 30 a 0 galones

(C) El tanque se mantiene lleno

(D) El tanque pierde 6 galones

Mis cálculos

7.4

5 Según la gráfica del tanque, ¿cuántos galones entraron entre el minuto 0 y el 2?

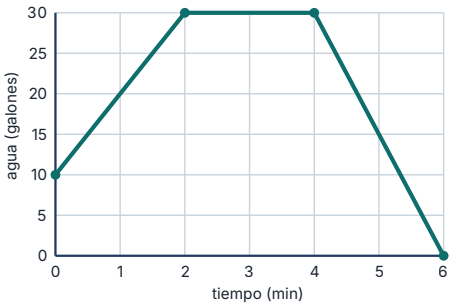

(A) 30

(B) 10

(C) 20

(D) 2

Mis cálculos

6 Según la gráfica del tanque, ¿a qué tasa se vació entre el minuto 4 y el 6?

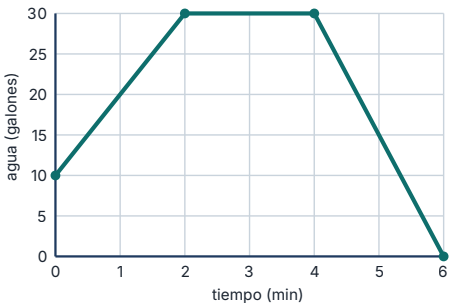

(A) 15 galones por minuto

(B) 30 galones por minuto

(C) 7.5 galones por minuto

(D) 5 galones por minuto

Mis cálculos

7 La gráfica muestra los ahorros de Luis. ¿Qué representa el tramo de la semana 2 a la 3?

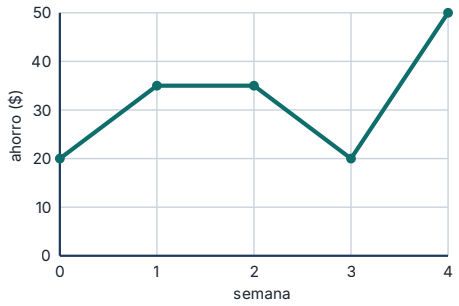

(A) Luis gastó $15 de sus ahorros

(B) Luis ahorró $15

(C) Los ahorros no cambiaron

(D) Luis gastó $20

Mis cálculos

8 Según la gráfica de los ahorros, ¿en qué semana tuvo Luis más dinero?

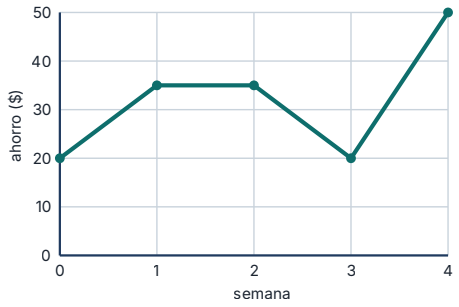

(A) la semana 1

(B) la semana 2

(C) la semana 0

(D) la semana 4

Mis cálculos

7.4