Nombre _____ Grupo _____ Fecha _____

3 Practico (6 ejercicios)



Antes de contestar: ¿Qué datos tengo? ¿Qué me piden? Muestra tus cálculos en el espacio.

1 ¿Qué sólido forma esta red?

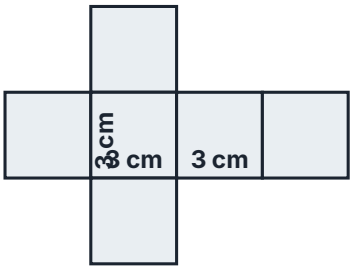

- (A) prisma rectangular de caras distintas
- (B) pirámide cuadrangular
- (C) cubo
- (D) cilindro

Mis cálculos

2 ¿Qué sólido forma esta red?

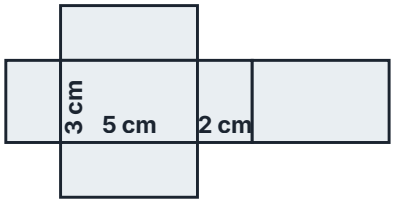

- (A) cubo
- (B) prisma rectangular
- (C) pirámide cuadrangular
- (D) prisma triangular

Mis cálculos

3 ¿Qué piezas forman la red de un cilindro?

- (A) 2 círculos y 1 rectángulo
- (B) 1 círculo y 1 rectángulo
- (C) 2 círculos y 2 rectángulos
- (D) 1 círculo y 1 triángulo

Mis cálculos

4 ¿Qué piezas forman la red de un prisma triangular?

- (A) 1 triángulo y 3 rectángulos
- (B) 2 triángulos y 2 rectángulos
- (C) 2 triángulos y 3 rectángulos
- (D) 3 triángulos y 2 rectángulos

Mis cálculos

5 La red es de una pirámide de base cuadrada de 6 cm; cada triángulo tiene 4 cm de altura. ¿Cuál es el área total?

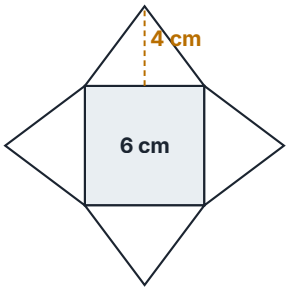

(A) 60 cm²
(B) 84 cm²
(C) 132 cm²
(D) 48 cm²

Mis cálculos

6 ¿Cuántas caras tiene la red de una pirámide de base hexagonal?

(A) 6
(B) 8
(C) 12
(D) 7

Mis cálculos