Nombre _____ Grupo _____ Fecha _____

3 Practico (4 ejercicios)



Antes de contestar: ¿Qué datos tengo? ¿Qué me piden? Muestra tus cálculos en el espacio.

1 En la figura, ¿qué segmento es un radio dibujado aparte del diámetro?

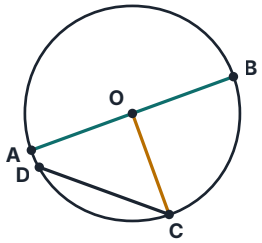

(A) AB

(B) CD

(C) el arco BC

(D) OC

Mis cálculos

2 En la figura, ¿cómo se llama el segmento CD?

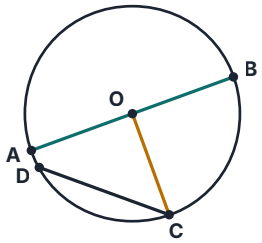

(A) diámetro

(B) cuerda

(C) radio

(D) arco

Mis cálculos

3 ¿Por qué AB es un diámetro y CD no lo es?

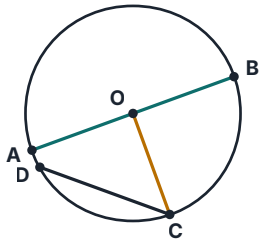

(A) AB es más corto que CD

(B) CD pasa por el centro

(C) AB pasa por el centro O; CD no

(D) AB es curvo

Mis cálculos

4 ¿Qué es un arco?

(A) una parte de la circunferencia entre dos puntos

(B) un segmento que une dos puntos de la circunferencia

(C) la distancia del centro a la circunferencia

(D) el punto del medio del círculo

Mis cálculos